Le coin du prof

Maths alors !

1 Du nouveau !

2

Remue-méninge 10

#DSDEN86

MATHebdo

10 PROBLÈMES PAR SEMAINE

3

9

Géométrie

8

4

7

6

5

Entraînement

Semaine 5 - MS/GS

Le coin du prof

Dévoiler progressivement les énoncés...

...pour **faciliter la mise en mémoire de travail** des informations essentielles et aider l'élève à se construire une image mentale / un film du problème.

Proposer la question en premier...

...pour **orienter l'attention des élèves** sur ce qu'on cherche et avoir une idée du contexte évoqué dans le problème.

Rendre le feed-back plus rapide...

...pour permettre aux élèves de savoir où ils en sont dans leurs apprentissages. **Corriger chaque problème immédiatement.**

Des rituels pour approcher les quantités

1



Ecoute bien Josette et trouve l'erreur !

Ton défi est de construire une fleur ou un tableau du 4 ! J'attends tes photos !

La fleur du 3

Pour aller plus loin...
En ligne avec La classe du lama

Des rituels pour approcher les quantités 2

Observe bien ces balles.







Les balles numérotées

Pour chaque image, retrouve les chiffres manquants et réécris les suites dans l'ordre.

Entraînement 3

audio_022

La course de ma vie !

Entraînement 4



La réussite

A toi de jouer !

Entraînement 5

Josette a cuisiné des gaufres.
Combien y en a-t-il ?

Miam !
Des gaufres !

Entraînement 6

Le chien et les moutons

audio_024

La réponse est ici !

Entraînement 7

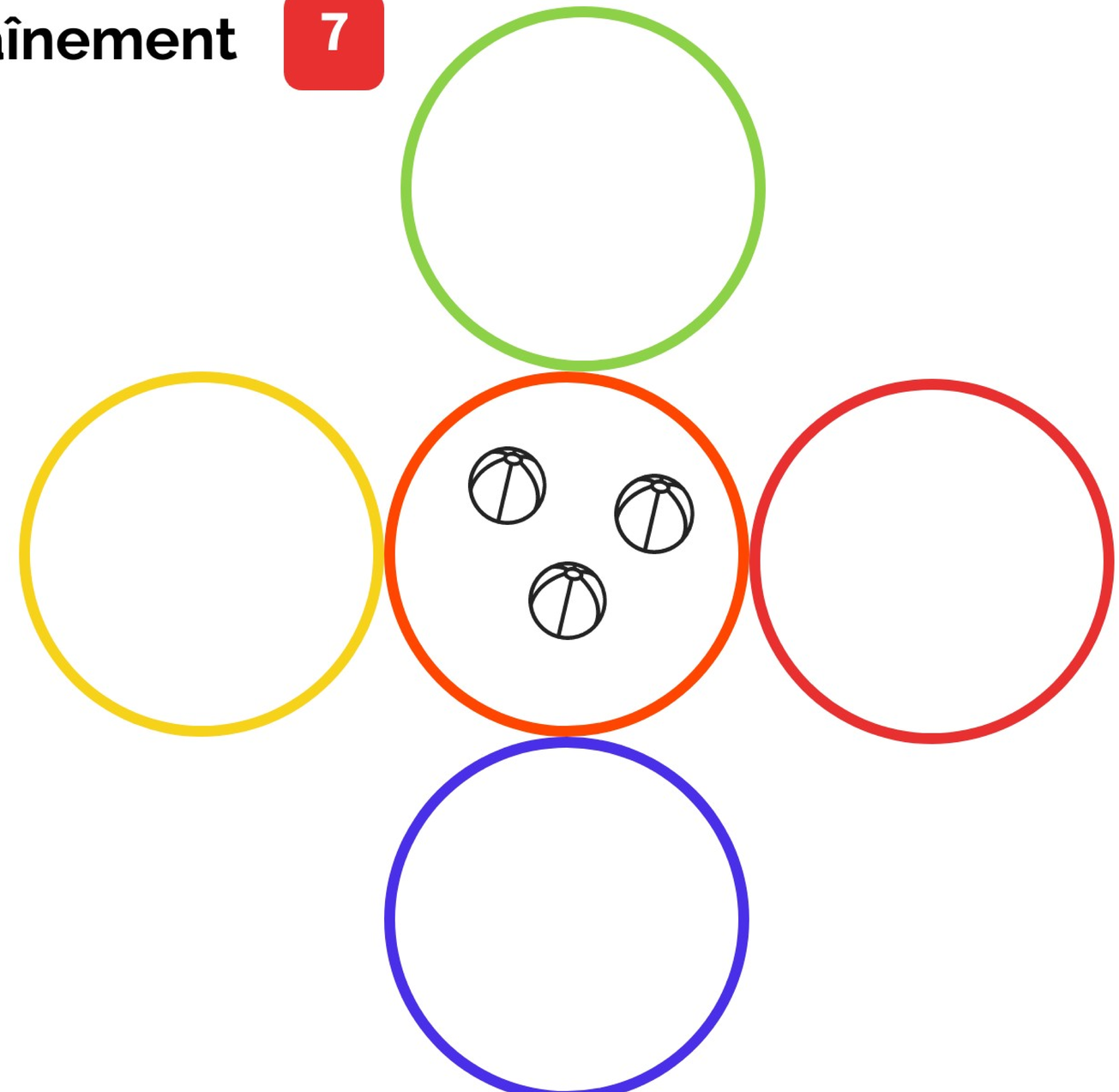

Installe-toi dehors et prépare les cerceaux comme sur cette image.
Place trois objets dans celui du milieu.

Ajoute des objets dans les autres cerceaux.

Attention chaque colonne et chaque ligne doit compter 8 objets en tout !

Géométrie 8

Des triangles...



Tennis - Daro Khider 2017 -

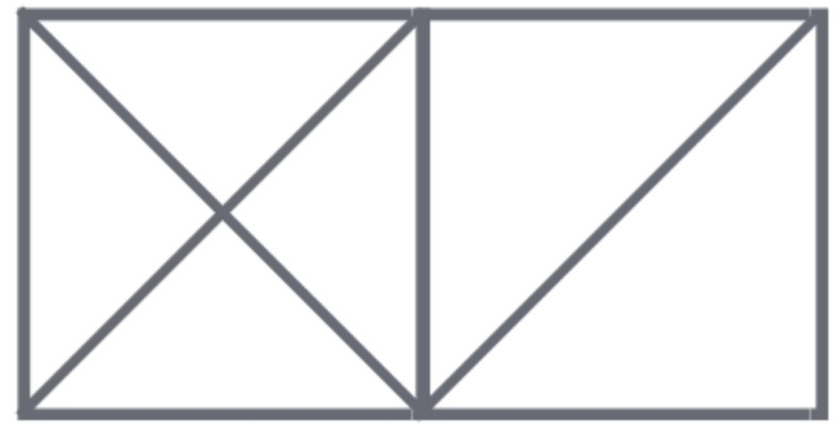

Retrouve un maximum de triangles sur le tableau puis sur la figure géométrique.

Géométrie 9

La souris

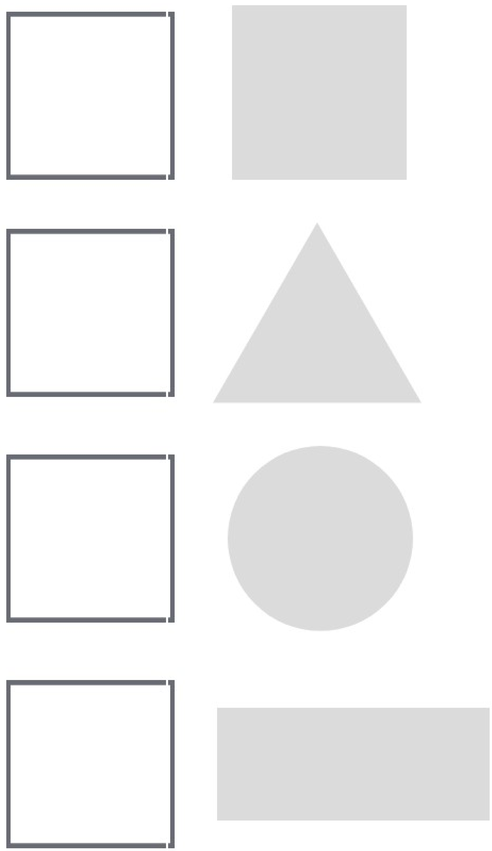

Trouve et écris combien de carrés, de disques, de triangles et de rectangles. ont été utilisés pour créer cette souris.

A ton tour d'inventer un assemblage avec des formes !



D'après les illustrations de *Trois souris en papier* - Mijade -

Remue-méninge 10



Essaie de découper un disque en 4 quartiers puis un autre en 8 quartiers.



Les suites mathématiques

Ce n’est pas si compliqué dès que l’on sait lire et dire les chiffres !

Trouve la suite de cette série de nombres :

1
11
21
1211
111221
312211 ...

Tu penses que c’est compliqué alors dis ce que tu vois à voix haute, une ligne après l’autre.

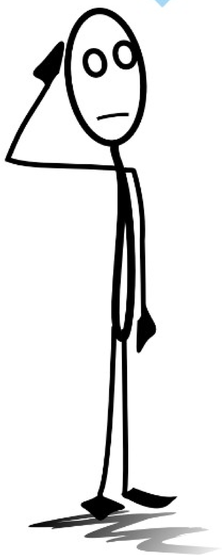

La solution :