Le coin du prof

Maths alors !

1 Du nouveau !

Remue-méninge 10

2

#DSDEN86

MATHebdo

10 PROBLÈMES PAR SEMAINE

Sciences

9

3

Espace et Géométrie 8

4

Problem in English 7

6

5

Entraînement

Roue 3 - CP

CC BY NC ND

Le coin du prof

quelques propositions

Comment utiliser les problèmes avec vos élèves...

Planification dans la semaine

Le maitre-mot : RITUALISER !

- Chaque jour : 2 problèmes.
- En entrant en classe le matin et l'après-midi par ex...
- De courtes séances de résolution active par les élèves. (10-15 minutes)

Chemin des champions : Codage des problèmes :

Problème n°	1	2	3	4	5	6	7	8	9	10
Codage	1	2	1	1	1	1	1	Reconnaissance des formes	Déplacement gauche-droite	Logique

Du nouveau ! 1

Le cycle de vie du papillon

Observe l'illustration pour répondre à la question. Passe ton pointeur sur le dessin pour trouver les informations.

Combien de jours y a-t-il entre la ponte de l'oeuf et la fabrication de la chrysalide ?

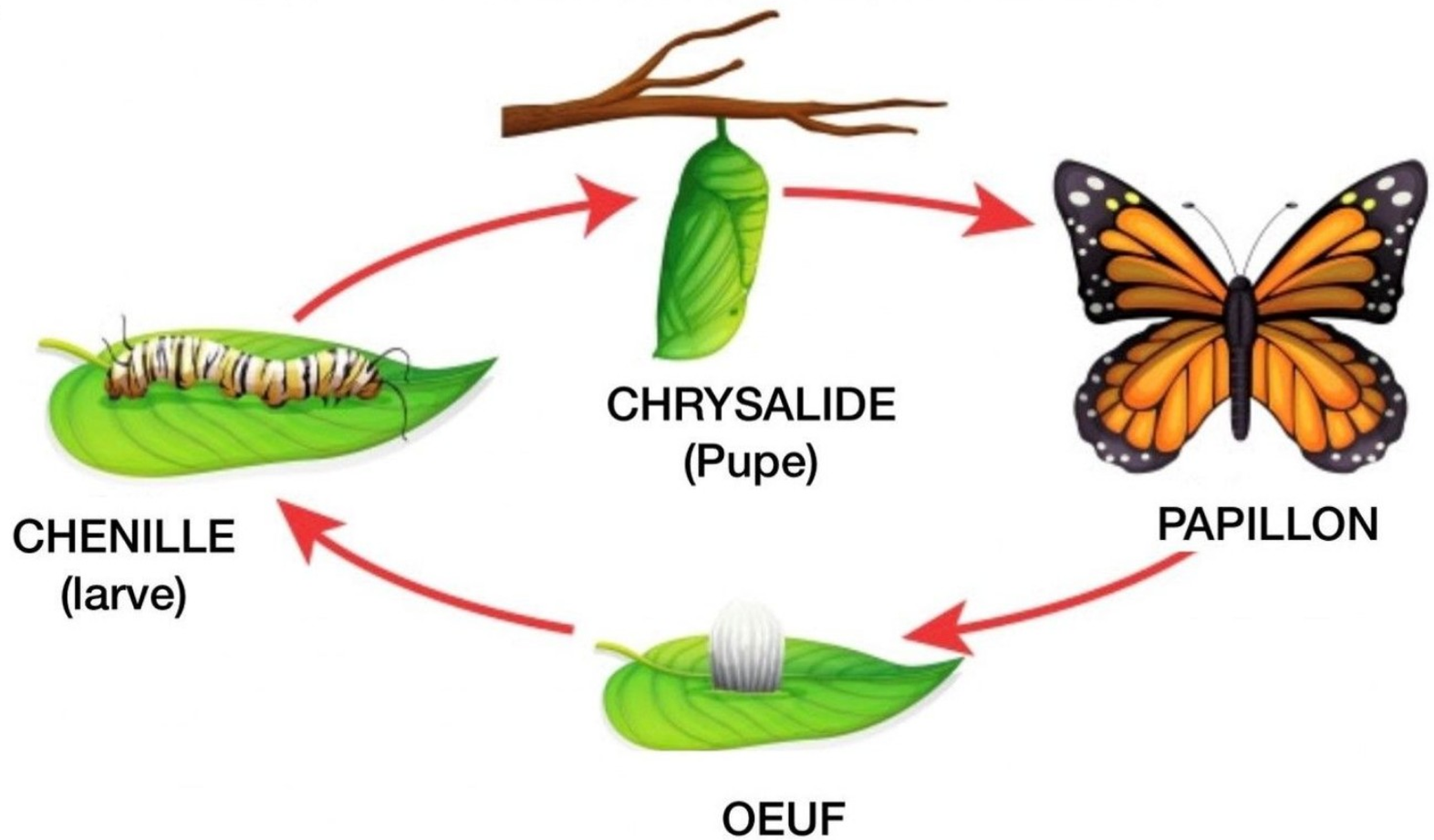

http://desbonheursalecole.over-blog.com/

Ardoise

Représenter

Du nouveau ! 2

Le thermomètre

Cette semaine, nous avons mis le thermomètre sur le bord de la fenêtre pour mesurer la température.

Quelle température indique le thermomètre ?



Se représenter

Aide

Ardoise

Entraînement 3

Radio MATHebdo

RapidoQuiz : les inventions

RapidoQuiz - 01

Partie 1/2

RapidoQuiz - 02

Partie 2/2

Ardoise

L'énoncé de Cosinus

L'énoncé de Cosinus

Représenter / Modéliser

A B C

Extraits musicaux : "Who cares" (Ultrasyd) - "Restart" (Drumstep) - Buzzer de l'émission "Questions pour un champion" - **Avec** Adéle, Margaux, Robin et Samuel

Entraînement 4

Les phasmes

Dans la classe, nous avons décidé de débuter un élevage de phasmes.

Dans le terrarium de la classe, il y a :

- **6 phasmes** bâton du Vietnam

- **6 phasmes** moroses

Combien y a-t-il de phasmes en tout ?

Ardoise

Représenter

Entraînement 5

Observe la nature

Chacune de ces fleurs à 5 pétales.

Cherche le nombre de coccinelles pour que tous les pétales de fleurs soient occupés par une coccinelle.



Ardoise

Représenter

Entraînement 6

L'aimant

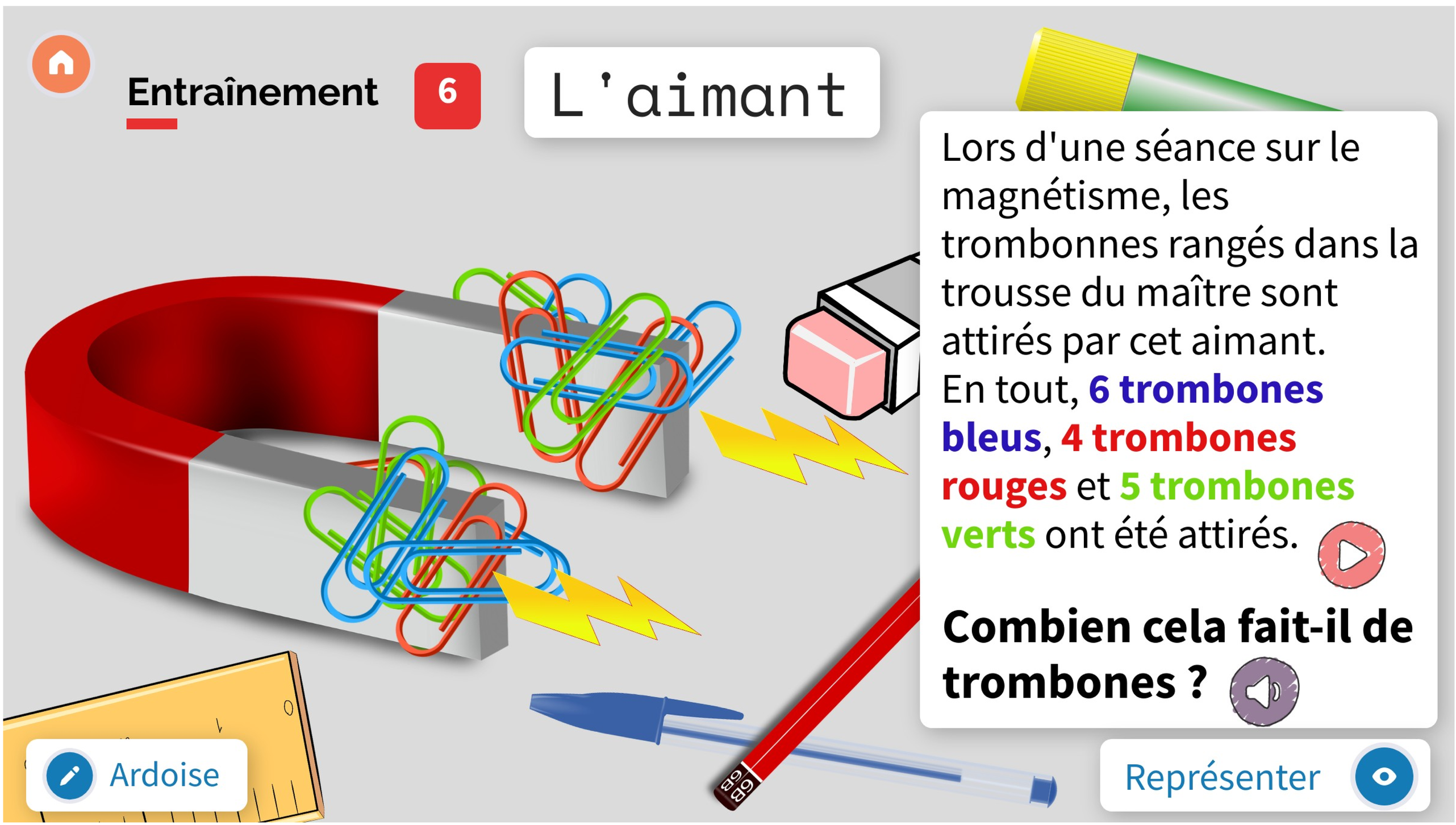

Lors d'une séance sur le magnétisme, les trombonnes rangés dans la trousse du maître sont attirés par cet aimant.
En tout, **6 trombones bleus**, **4 trombones rouges** et **5 trombones verts** ont été attirés.

Combien cela fait-il de trombones ?

Ardoise

Représenter

Problem in English 7

James and the weather

white cloud

grey cloud

black cloud

?

1 2 3 4 5 6 7 8 9 10

ANSWER

réponse

aide

bonus

Ecoute bien James et réponds à la question en anglais...

Le labo

Fais correspondre les formes géométriques du carton avec certains des éléments du laboratoire. Pour cela, nomme-les puis déplace-les afin de les superposer aux formes que tu auras reconnues dans le décor.

L'espace

Sur quel symbole arrives-tu ?

Place ton doigt sur la fenêtre avec une **étoile**. Va à gauche de 2 fenêtres puis à droite de 4 fenêtres et nomme la forme trouvée puis clique dessus.



+ Défi

Les étoiles

Colorie les étoiles selon les indications suivantes :
L'étoile **rouge** est entre l'étoile **verte** et l'étoile **bleue**. L'étoile **jaune** est la première et l'étoile **verte** vient juste après l'étoile **jaune**.



Multi clics
Solution

Tâtonner

Maths alors !

APECUS vous fait garder la forme !

Activité Physique Quotidienne



Lance la roue et réalise la chorégraphie qui correspond à la bonne réponse !

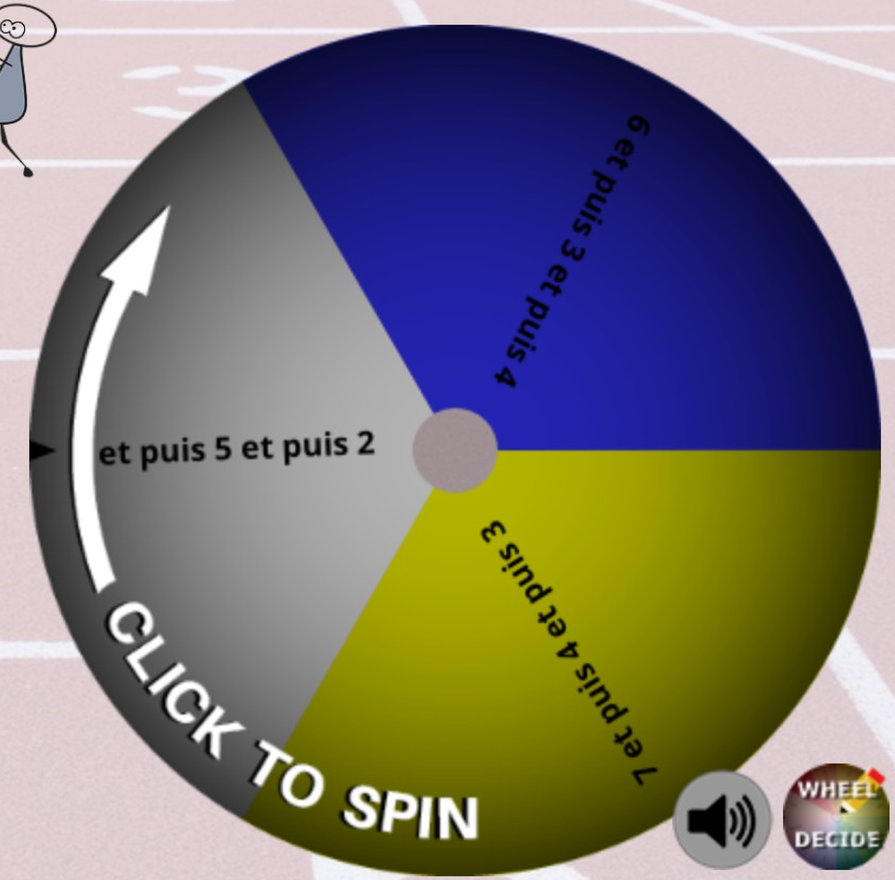

13	11	14
		

Vérification