Le coin du prof

Maths alors !

1 Du nouveau !

Remue-méninge 10

2

#DSDEN86

MATHebdo

10 PROBLÈMES PAR SEMAINE

Sciences

9 Espace et Géométrie

3

8

4

Problem in English 7

6

5 Entraînement

Roue 3 - CE1/CE2

CC BY NC ND

Le coin du prof

Planification dans la semaine

Le maitre-mot : RITUALISER !

quelques propositions

- Chaque jour : 2 problèmes.
- En entrant en classe le matin et l'après-midi par ex...
- De courtes séances de résolution active par les élèves. (10-15 minutes)

Comment utiliser les problèmes avec vos élèves...

Chemin des champions :

Codage des problèmes :

Problème n°	1	2	3	4	5	6	7	8	9	10
Codage	Lecture de graduations	2	1	6	2	1	2	Solides	Disques	Manipuler

Du nouveau 1 Le thermomètre

L'eau existe sous différents états. Tu connais l'eau liquide et l'eau solide. Ici, Mélinda doit mesurer la température de l'eau liquide dans son récipient.

Peux-tu l'aider à lire la température affichée par le thermomètre ?



Ardoise

L'air, ce n'est pas rien !

L'air, ce n'est pas "rien" même si c'est invisible. Il occupe un espace... L'air, c'est de la matière.

La capacité d'un verre est de 24 cL (240 mL) et celle d'une bouteille est de 100 cL (1 000 mL).

Quelle est la différence de capacité entre ces deux récipients en cL (en mL) ?

Ardoise

Entraînement 3

Radio MATHebdo

RapidoQuiz : les inventions

RapidoQuiz - 01

Partie 1/2

RapidoQuiz - 02

Partie 2/2



L'énoncé de Cosinus

L'énoncé de Cosinus

Représenter / Modéliser

A B C

Extraits musicaux : "Who cares" (Ultrasyd) - "Restart" (Drumstep) - Buzzer de l'émission "Questions pour un champion" - **Avec** Adéle, Margaux, Robin et Samuel

Entraînement 4

Le labyrinthe de Ratinopolis

Rien ne sert de courir, il faut dormir à point. Pour comprendre, lis l'histoire du "Labyrinthe de Ratipolis".



https://synapses-lamap.org/2020/09/29/activite-de-classe-le-temps-du-sommeil/

Une chauve-souris dort en moyenne 20 h par jour. C'est 7h55, soit presque 8h de plus qu'une souris.

Combien dort un souris ?

Ardoise

Entraînement 5

Le mobile

Mobile Calder,
Centre Pompidou

Des élèves souhaitent réaliser un mobile dont voici le schéma :

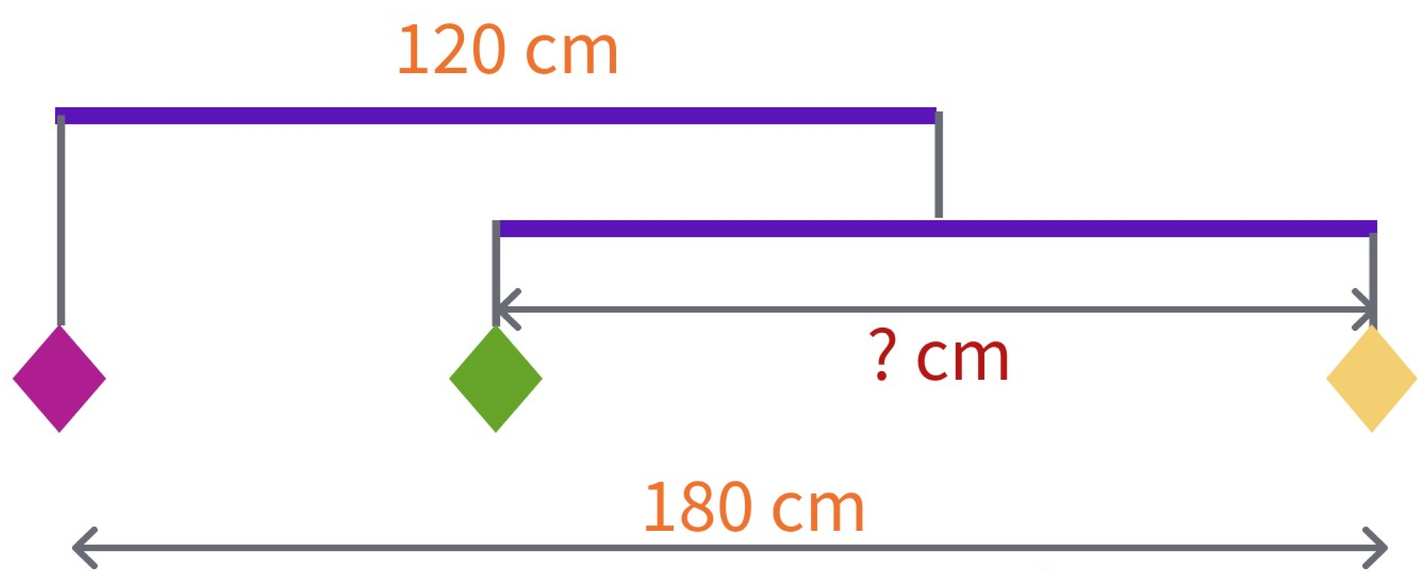

Trouve la longueur manquante sur le schéma.

Ardoise

Entraînement 6

La libellule

Les libellules pondent leurs œufs dans l'eau. Après éclosion, les larves de libellule vivent généralement entre 1 et 3 ans, avant d'en sortir pour se métamorphoser en libellule adulte.

https://fr.vikidia.org/wiki/Libellule

L'adulte vit environ 6 mois.

Combien cela représente-t-il en jours ?

Ardoise

Problem in English 7

James and the weather

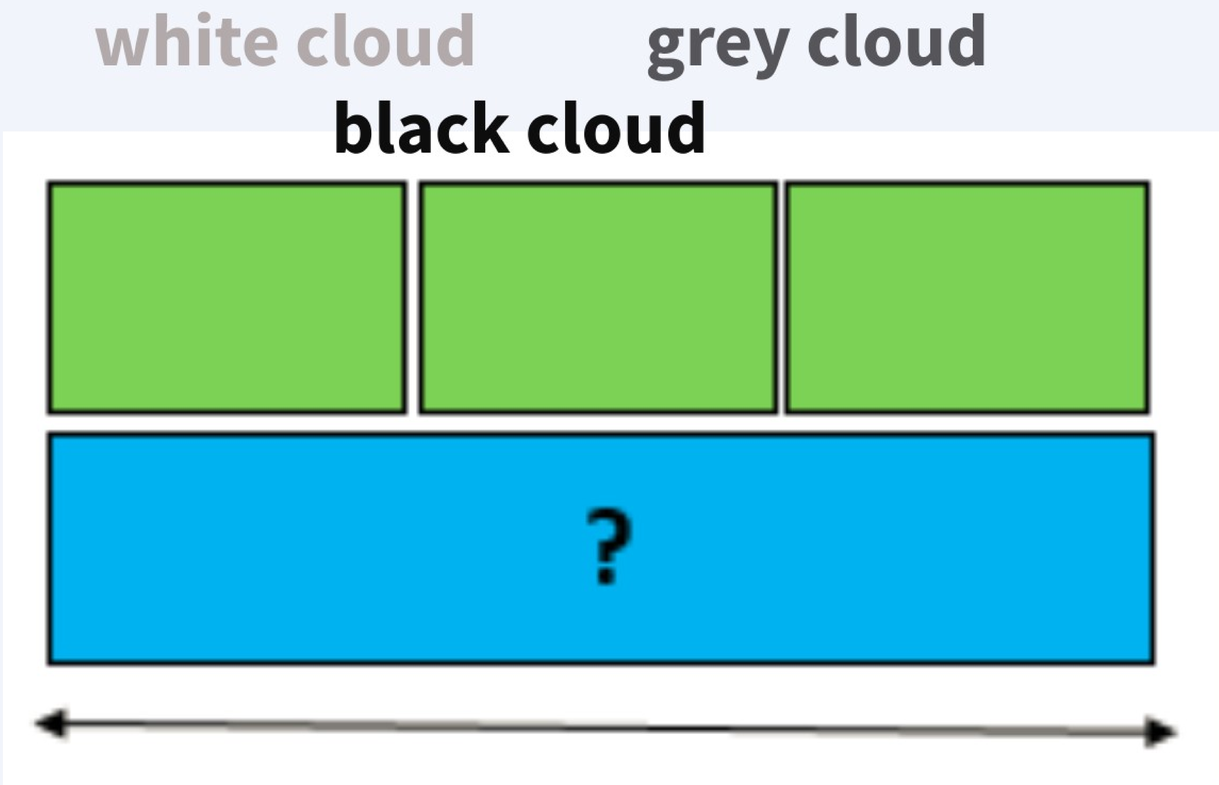

réponse

aide

bonus

Ecoute bien James et réponds à la question en anglais...

Cercles/Disques

Jeu de tri: Fais glisser les cercles et les disques dans la bonne poubelle.

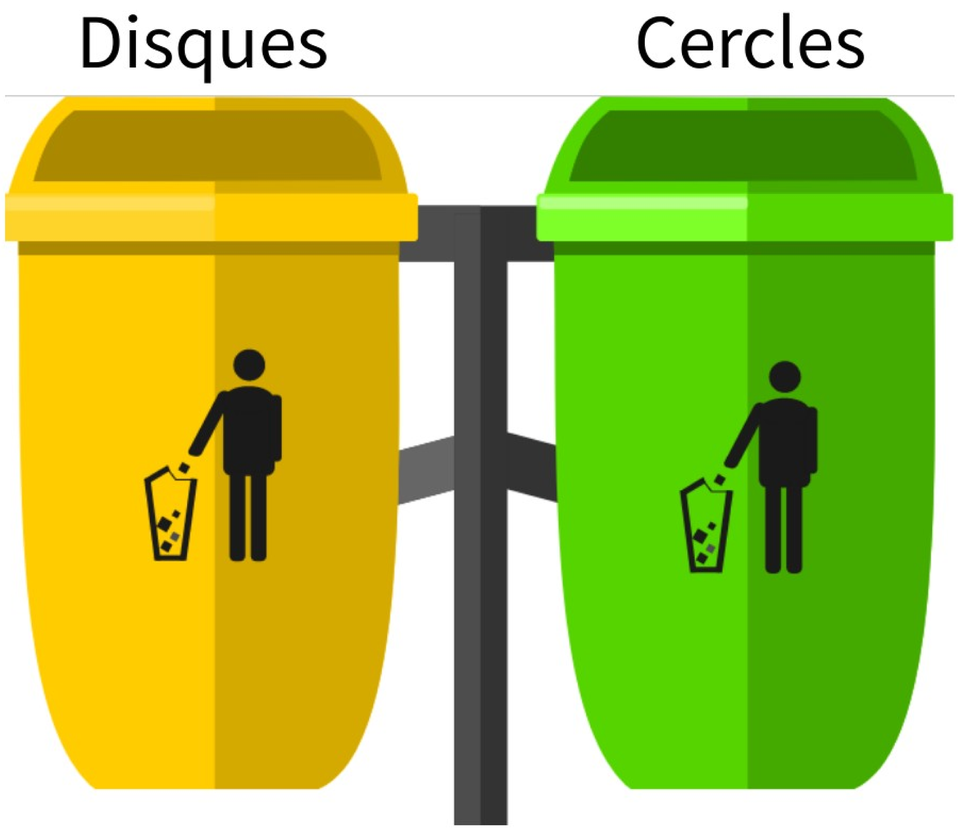

Axe de symétrie

Comment peux-tu placer cet axe de symétrie ?
Fais glisser l'axe au bon endroit.

Axe de symétrie

Pour s'entrainer !

Remue-méninge 10

Les bateaux



Des élèves d'une classe de CE1/CE2 ont fabriqué 3 bateaux pour récolter les microplastiques dans l'eau.

Range-les du plus léger au plus lourd.

Maths alors !

APECUS vous fait garder la forme !

Activité Physique Quotidienne



Lance la roue et réalise la chorégraphie qui correspond à la bonne réponse !

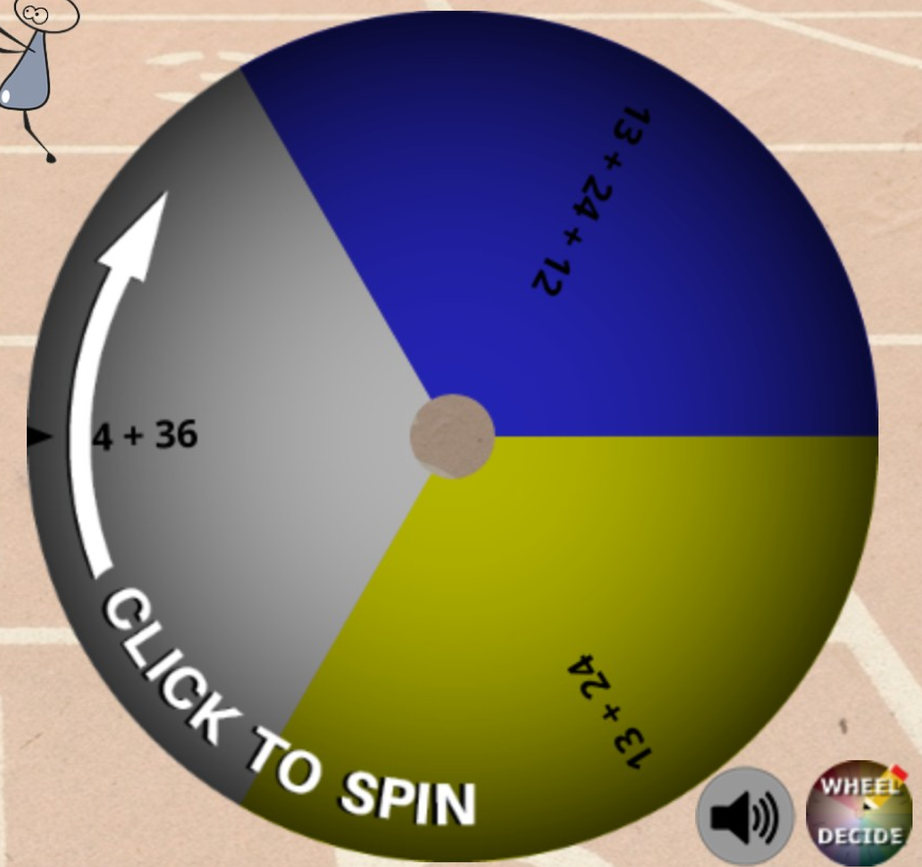

37	50	49
		

Vérification