Cliquez ici pour nous aider à améliorer #MATHebdo !

Le coin du prof

Maths alors !

1 Du nouveau !

2

Remue-méninge 10

#DSDEN86

MATHebdo

10 PROBLÈMES PAR SEMAINE

3

9

Espace et Géométrie

4

8

Problem in English 7

6

5 Entraînement

Semaine 24 - MS/GS

CC BY NC ND

Le coin du prof

Cliquez ici pour nous aider à améliorer #MATHebdo !

Relancer...

...le travail des élèves bloqués, pour des raisons mathématiques ou non, en posant des **questions** pour les aider à s'approprier l'énoncé, en invitant à faire un schéma ou en proposant du matériel.

Proposer...

... à des élèves ne trouvant pas la même chose de **comparer leurs résultats** et leurs procédures pour se mettre d'accord en les invitant si besoin à utiliser les **ressources** à leur disposition (cahier de référence ou affichages)

Organiser le travail en groupe

Vous devez proposer d'abord un **temps de travail individuel** pour que les élèves s'approprient le problème chacun à leur **rythme** et s'engagent dans le travail de groupe ensuite.

Du nouveau ! 1

La fabrication du chocolat

audio_063



Représenter/modéliser

Du nouveau ! 2

La tablette de Josette

Pour sa recette, Josette a besoin de cette tablette de chocolat entière. En tout, elle contient 10 barres...

Combien de barres de chocolat sont cachées sous la patte de Josette ?

Représenter/modéliser

Entraînement 3

Radio MATHebdo

Maïté et la recette de la mousse a…

audio_067



Entraînement 4

Les chocolats de Cosinus

MARCEL

JOSETTE

JAMES

SOURICETTE

RENÉ

réponse par ici

réponse par là

1	2	3	4	5

réponse ici

et là !

audio_060

Entraînement 5

Défi fleur du 9 chocolatée

La fleur géante du 8 des moyens/grands de l'école des Bleuets de Bruyères le Châtel (91)

Le sais-tu ?

audio_066

Entraînement 6

Les glaces au chocolat

Fais glisser les pièces et les billets pour représenter les sommes dépensées par Josette.

audio_061



Représenter/modéliser

Problem in English 7

James and the chocolates

?

1 2 3 4 5 6

aide

Représenter/modéliser

Ecoute bien James et réponds à la question en anglais...

Géométrie 8

Place les flèches pour coder chaque chemin de couleur.
Il faut passer sur les 8 cases de chaque couleur...
Pose le pointeur de ta souris sur la case d'arrivée pour découvrir une image.

Puis place l'image sur le disque de la couleur qui correspond.







Tableau à double entrée chocolaté

Fais gliss
bonnes
tableau.

Remue-méninge 10

Le prix des chocolats

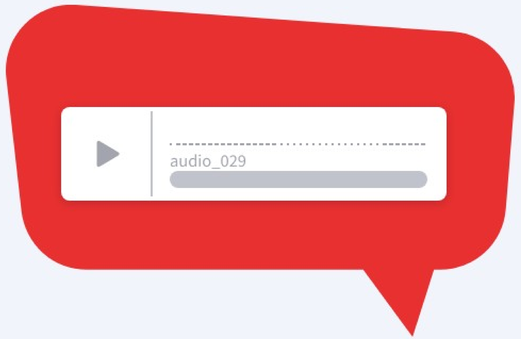

Un peu d'aide ?

Maths alors !

Le chocolat, ça fait rêver...

Voici une citation populaire :

Neuf personnes sur dix aiment le chocolat, la dixième ment !

Combien y a-t-il de menteurs :

- ***dans un groupe de 10 élèves ?***
- ***dans un groupe de 20 élèves?***
- ***dans un groupe de 30 élèves ?***