Le coin du prof

Maths alors !

1 Du nouveau !

2

Remue-méninge 10

#DSDEN86

MATHebdo

10 PROBLÈMES PAR SEMAINE

9

3

Espace et Géométrie 8

4

Problem in English 7

6

5 Entraînement

Roue 5 - CP

BY NC ND

Le coin du prof

quelques propositions

Comment utiliser les problèmes avec vos élèves...

Chemin des champions :

Codage des problèmes :

Problème n°	1	2	3	4	5	6	7	8	9	10
Codage	1	1	1	2	1	Math et EPS avec ***APECUS***	1	**Tangram** géométrique	**Codage** déplacement	**Tâtonnement**

Du nouveau ! 1

Le partage

Revenus de leur promenade nocturne, Moussa et Samy se partagent les **20 bonbons** qu'ils ont collectés.

Combien auront-ils de bonbons chacun ?

Ardoise

Représenter

Du nouveau ! 2

Les sucettes

Lors de leur chasse aux bonbons, Adèle a récolté **7 sucettes**. Son frère, lui, en a récolté **3 de plus**.

Combien a-t-il de sucettes ?

Ardoise

Représenter

Entraînement 3

Radio MATHebdo

Le Trouillobus

Le Trouillobus - 01

Partie 1/2

Le Trouillobus - 02

Partie 2/2

L'énoncé de Cosinus

L'énoncé de Cosinus

Représenter / Modéliser

Extraits musicaux : ""Tense" (Jincheng Zhang) - "Peur sur la ville" (BO du film) - "La salsa du démon" (le Grand oorchestre du slendid) - "Battle of omnis" (B. Withycombe) - "J'ai peur du noir" (Aldebert) - **Avec** Adéle, Margaux, Robin et Samuel

Entraînement 4

La récolte de citrouilles

En vue de la fête d'Halloween, le jardinier a récolté **14** citrouilles.

Son petit-fils en a déjà décorées **3**.

Combien reste-t-il de citrouilles ?

Ardoise

Représenter

Entraînement 5

Le scorpion et l'araignée ont 8 pattes.

Combien as-tu vu passer de pattes ?

Et toi, as-tu peur des araignée et des scorpions ?

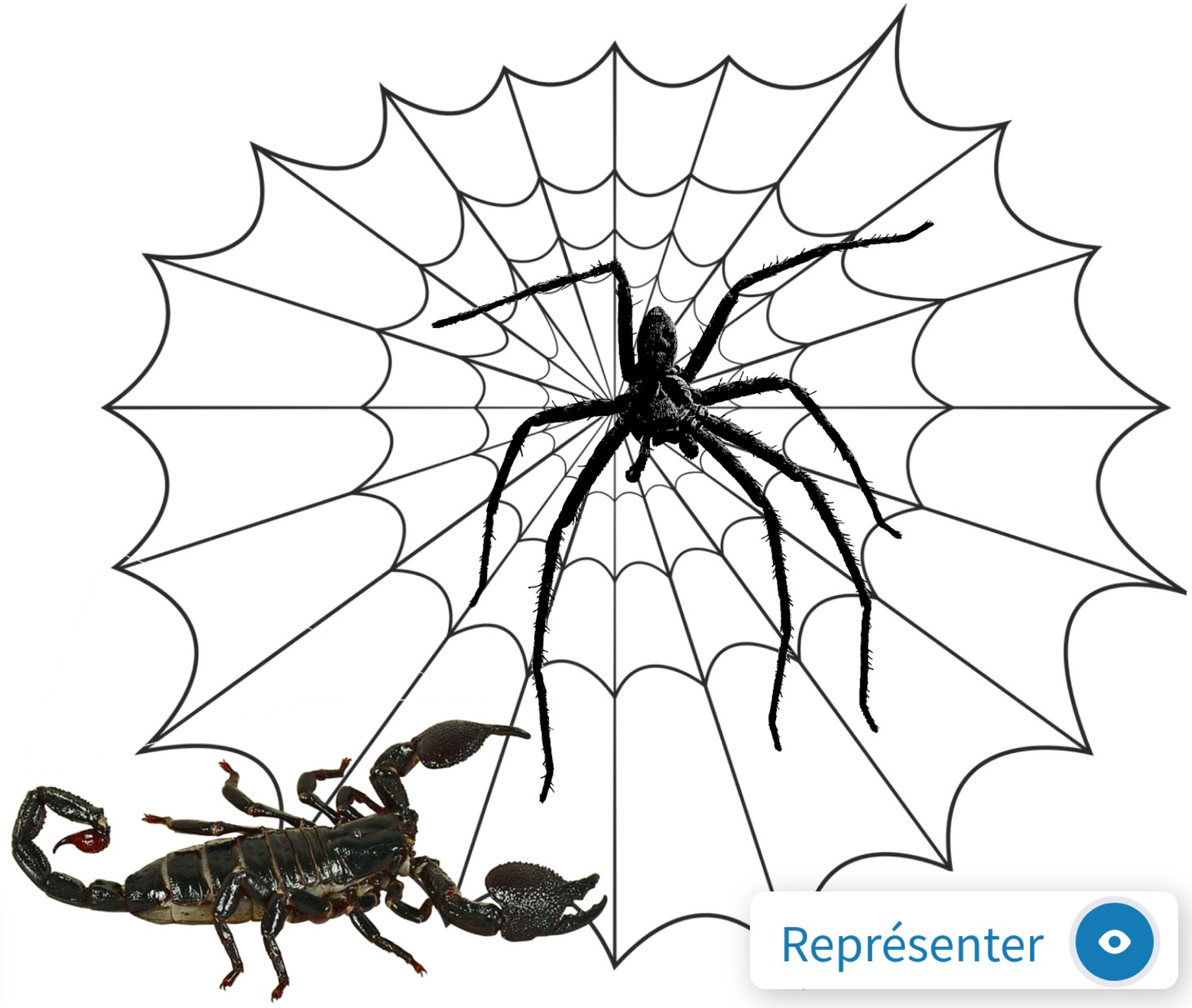

Ardoise

Représenter

Entraînement 6

Activité Physique Quotidienne

Lance la roue et prends la bonne position !

10	9	1
		



Solutions

Info prof pour préparer les élèves

Problem in English 7

James and Jack O'Lantern





1 2 3 4 5 6 7 8 9 10

ANSWER

réponse

aide

bonus

Ecoute bien James et réponds à la question en anglais...

La sorcière

Nomme les figures que tu connais et replace les sur la silhouette de la sorcière pour la rendre plus effrayante.

Modèle



librement inspiré de https://www.anyssa.org/classedesgnomes/tangram-trois-silhouettes-de-personnages/

Géométrie 9

La chasse aux bonbons

Suis le **chemin gris** et effraie les gens sur ton passage pour collecter des sucreries (*cases marron)*.
N'oublie pas de coder ton déplacement dans le tableau ci-dessous en utilisant les flèches.

Place les flèches puis vérifie :

VERIFICATION

solution



Remue-méninge 10

La récolte

Il y a 12 bonbons et 3 bocaux.

Dessine (ou déplace) les bonbons dans chaque bocal pour qu'il y ait 3 bonbons de plus que dans le bocal précédent.

Ardoise

Essayer et vérifier

Maths alors !

La citrouille mathématique

Les citrouilles ne sont pas réservées à Halloween. En fait, cette courge orange sphérique se prête très bien à plusieurs activités mathématiques.

Voici une expérience pratique du travail avec les nombres : comptez les graines ! Le nombre de graines contenues dans chaque citrouille variera de citrouille en citrouille. La seule façon de savoir combien de graines une citrouille contient est de les retirer et de les dénombrer.

Mesdames et messieurs les enseignants, en fonction de votre niveau de classe, commencez par fournir des petites puis des moyennes et grandes citrouilles aux élèves.