Le coin du prof

Maths alors !

1 Du nouveau !

2

Remue-méninge 10

#DSDEN86

MATHebdo

10 PROBLÈMES PAR SEMAINE

3

9

Espace et Géométrie

8

4

Problem in English 7

6

5

Entraînement

Roue 5 - CE1/CE2

CC BY NC ND

Le coin du prof

quelques propositions

Comment utiliser les problèmes avec vos élèves...

Chemin des champions :

Codage des problèmes :

Problème n°	1	2	3	4	5	6	7	8	9	10
Codage	1 1	1	1	2	Calcul mental avec Apécus		2	Cubes	Figures planes	Tâtonner

Du nouveau 1

La collecte de friandises

Revenus de leur promenade nocturne, Moussa et Samy mettent en commun les friandises qu'ils ont collectés :
- Moussa a 3 paquets de 4 sucettes et 12 bonbons.
- Samy a 20 bonbons, 5 sucettes et 3 paquets de 6 chocolats.

CE1 : Trouve le nombre de friandises de chaque enfant.

CE2 : Combien ont-ils collectés de friandises en tout ?

Ardoise

Du nouveau 2

Les bonbons

Lors de leur chasse aux bonbons,
Adèle a récolté **37 bonbons**.
Son frère en a **28** de plus.

Combien en a-t-il ?

Ardoise

Entraînement 3

Radio MATHebdo

Le Trouillobus

Le Trouillobus - 01

Partie 1/2

Le Trouillobus - 02

Partie 2/2

L'énoncé de Cosinus

L'énoncé de Cosinus

?

Représenter / Modéliser

Extraits musicaux : ""Tense" (Jincheng Zhang) - "Peur sur la ville" (BO du film) - "La salsa du démon" (le Grand oorchestre du slendid) - "Battle of omnis" (B. Withycombe) - "J'ai peur du noir" (Aldebert) - **Avec** Adéle, Margaux, Robin et Samuel

Entraînement 4

La récolte de citrouilles

En vue de la fête d'Halloween, des jardiniers ont récolté 75 citrouilles. Ils en ont déjà décoré 6.

Combien leur en reste-t-il à décorer ?

Ardoise

Entraînement 5

Activité Physique Quotidienne

Lance la roue et prends la bonne position !

51	31	40
		

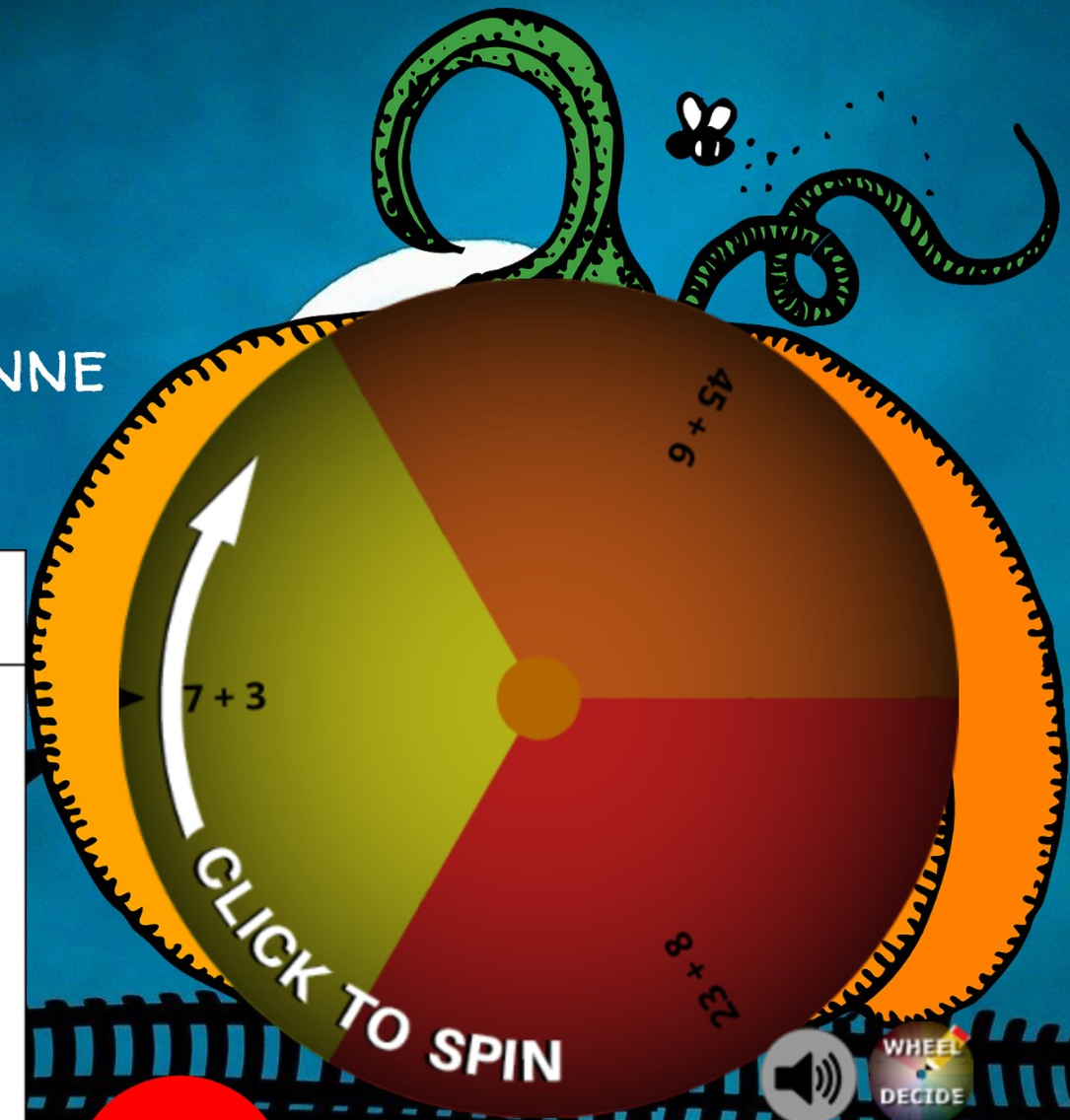

Info prof pour préparer les élèves

Entraînement 6

Des citrouilles pour Halloween

Entre le semis de la graine et la cueillette d'une citrouille, il se passe en général 140 jours. Les fleurs apparaissent 60 jours après les semis.

Combien de temps faut-il à une fleur pour qu'elle devienne une citrouille?

sans poser l'opération

Ardoise

Problem in English 7 James and Jack O'Lantern

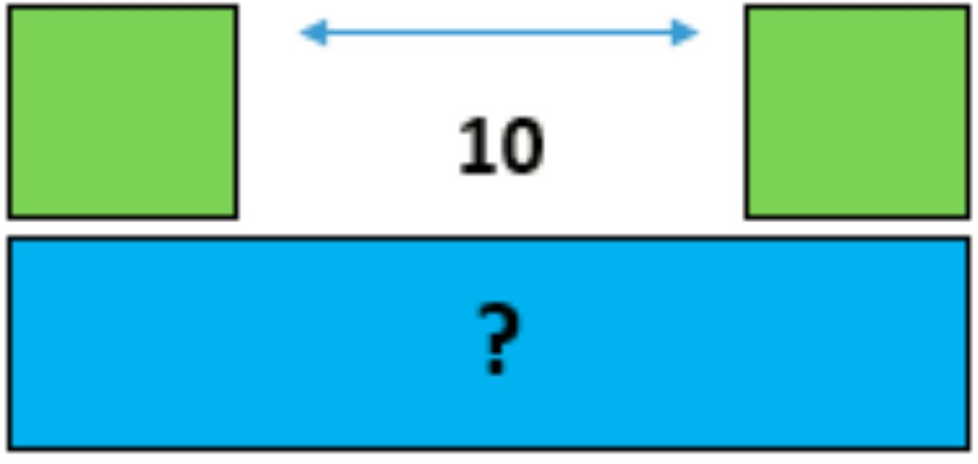

audio_002

answer

help

bonus

Listen to James and answer his question in English...

Espace et géométrie 8

Cube de la mort

La tête de mort et la chauve souris sont-ils au bon endroit sur le patron du cube ? Tu peux les déplacer.

AIDE

BRICOLAGE

Figures planes

Consigne: reproduis le visage de la citrouille

- Ses deux yeux sont des polygones à 3 cotés
- Sa bouche utilise deux réctangles
- Son nez est un polygone qui a 4 côtés égaux et 4 angles droits
- Ses oreilles sont des polygones à 4 côtés égaux mais qui n'ont pas d'angle droit

Et fais apparaitre le personnage mystère



Remue-méninge 10

Le modèle

Continue le modèle en ajoutant les 4 prochains dessins.



Tâtonner ?

Maths alors !

La citrouille mathématique

Les citrouilles ne sont pas réservées à Halloween. En fait, cette courge orange sphérique se prête très bien à plusieurs activités mathématiques.

Voici une expérience pratique du travail avec les nombres : comptez les graines ! Le nombre de graines contenues dans chaque citrouille variera de citrouille en citrouille. La seule façon de savoir combien de graines une citrouille contient est de les retirer et de les dénombrer.

Mesdames et messieurs les enseignants, en fonction de votre niveau de classe, commencez par fournir des petites puis des moyennes et grandes citrouilles aux élèves.