Le coin du prof

Maths alors !

1 Du nouveau !

2

Remue-méninge 10

#DSDEN86

MATHebdo

10 PROBLÈMES PAR SEMAINE

3

9

Espace et Géométrie 8

4

Vive le sport !

Problem in English 7

6

5 Entraînement

Roue 2 - CP

BY NC ND

Le coin du prof

quelques propositions

Comment utiliser les problèmes avec vos élèves...

Chemin des champions :

Codage des problèmes :

Problème n°	1	2	3	4	5	6	7	8	9	10
Codage	1	3	1	1	1	**Ordinal** Position	2	**Tangram**	**Déplacement quadrillage**	**Tâtonnement**

Un problème ?

1

Énoncé 1

Du nouveau ! 1

Les Chats sauvages



Au début d'un match de basket, l'équipe des ***Chats Sauvages*** a marqué ... points. Après la pause, elle a encore marqué ... points.

Combien de points l'équipe a-t-elle marqué ?

Tu penses avoir compris le problème ?
Alors clique sur l'icône pour faire appraître les données manquantes et finir de résoudre ce problème.

Représenter

Du nouveau ! 2

La ligue des champions

La semaine dernière le club anglais de **Liverpool** a battu le club italien de **Milan** par **3 buts à 2.**

Combien l'équipe de Liverpool a-t-elle marqué de buts de plus que Milan ?

Ligue des Champions · Mer. 15/09

Liverpool	3	-	2	Milan

Phase de groupes · Groupe B · Journée 1 sur 6

Fikayo Tomori 9' (contre son camp)
Mohamed Salah 48'
Jordan Henderson 69'

Ante Rebić 42'
Brahim Díaz 44'

Ardoise

Représenter

Entraînement 3

Radio MATHebdo

La reine des sirènes

La reine des sirènes - 01

Partie 1/2

La reine des sirènes - 02

Partie 2/2

L'énoncé de Cosinus

L'énoncé de Cosinus

Ardoise

Représenter / Modéliser

Extraits musicaux : "Voyage" (Ikson) - "Wondering" (Bloome) - "Le Grand Bleu" (E. Serra) - "Theof the Ocean" (F. Weems) - "Allez, allez" (Camille) - "Fantastic world" (G. Wald) - "Momento magico" (J. Folla) + extraits de "les Culottées" - **Avec** Adéle, Margaux, Robin et Samuel

Entraînement 4

Molkky

(Source : www.molkky.com)

Une famille joue au Mölkky.

Au premier lancer du Mölkky, la quille 4 tombe. Au deuxième lancer, la quille 3 tombe à son tour.

Combien cela fait-il de points ?

Ardoise



(Source : www.molkky.com)

Voici le placement des quilles au départ.

Représenter

Entraînement 5

La course de vélo

Compte le nombre de cyclistes présents sur cette photo.

Déduis-en le nombre de roues de vélo.

Ardoise

Représenter

Le 5000m fauteuil

la finale du 5000 mètres

Durant cette course de qualification des **Jeux Paralympiques de Tokyo**, le canadien Brent Lakatos s'est qualifié pour la finale.

Observe cette photo et dis la couleur de maillot du coureur en troisième position.

Solution

Problem in English 7



1 2 3 4 5 6 7 8 9 10

ANSWER

réponse

aide

bonus

James is playing rugby

red ball

blue ball

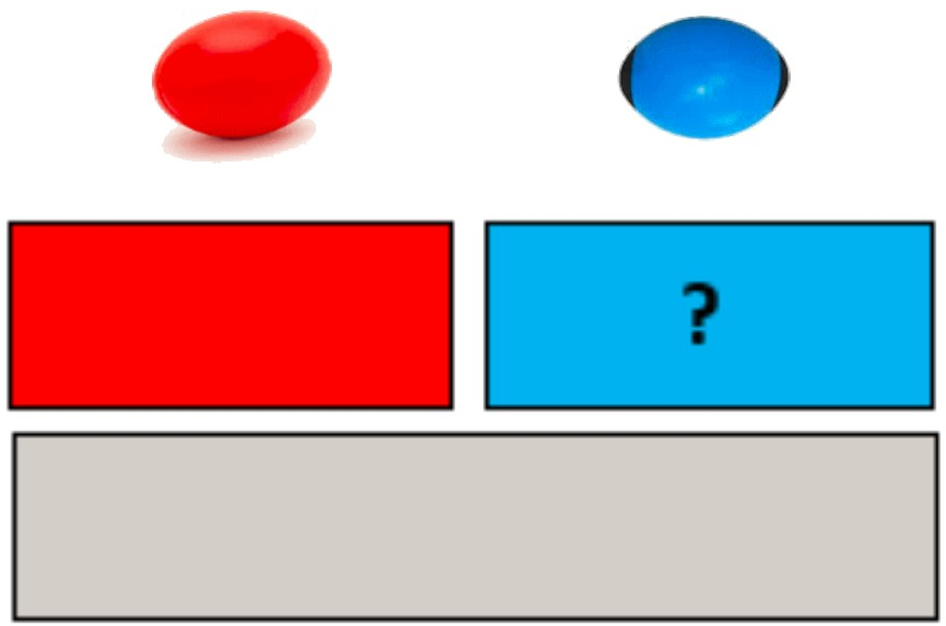

Ecoute bien James et réponds à la question en anglais...

La partie de foot

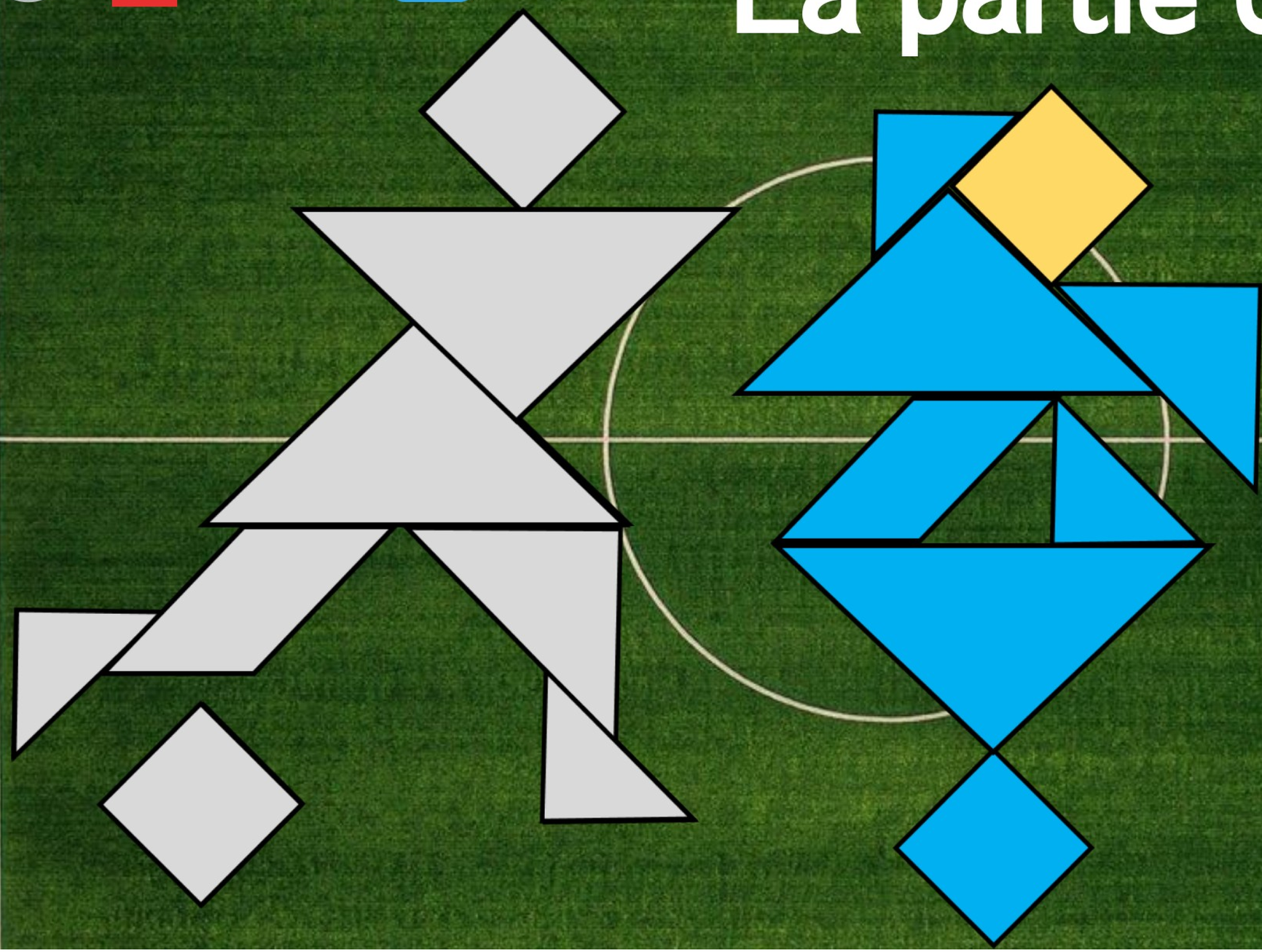

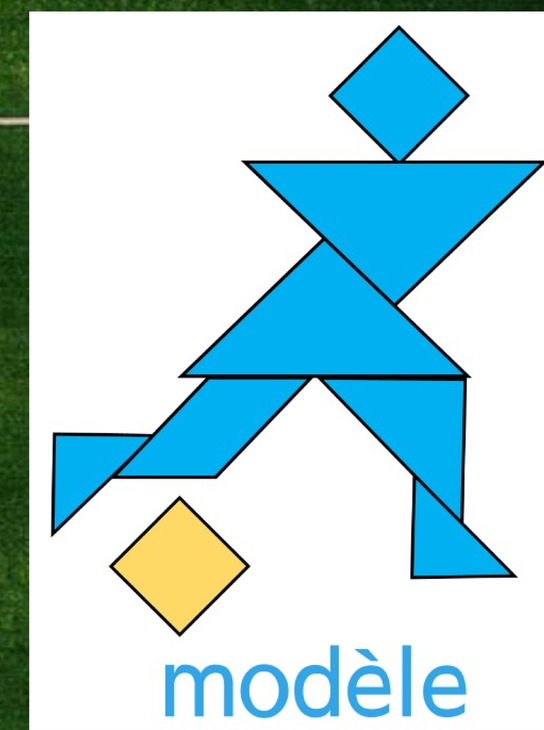

Le mini golf

Au golf, à l'aide d'un "club", il faut pousser la balle dans le trou.

En t'aidant des informations dans le cartouche, passe le curseur de ta souris (ou ton doigt) sur le chemin que devra emprunter la balle pour aller dans le trou.



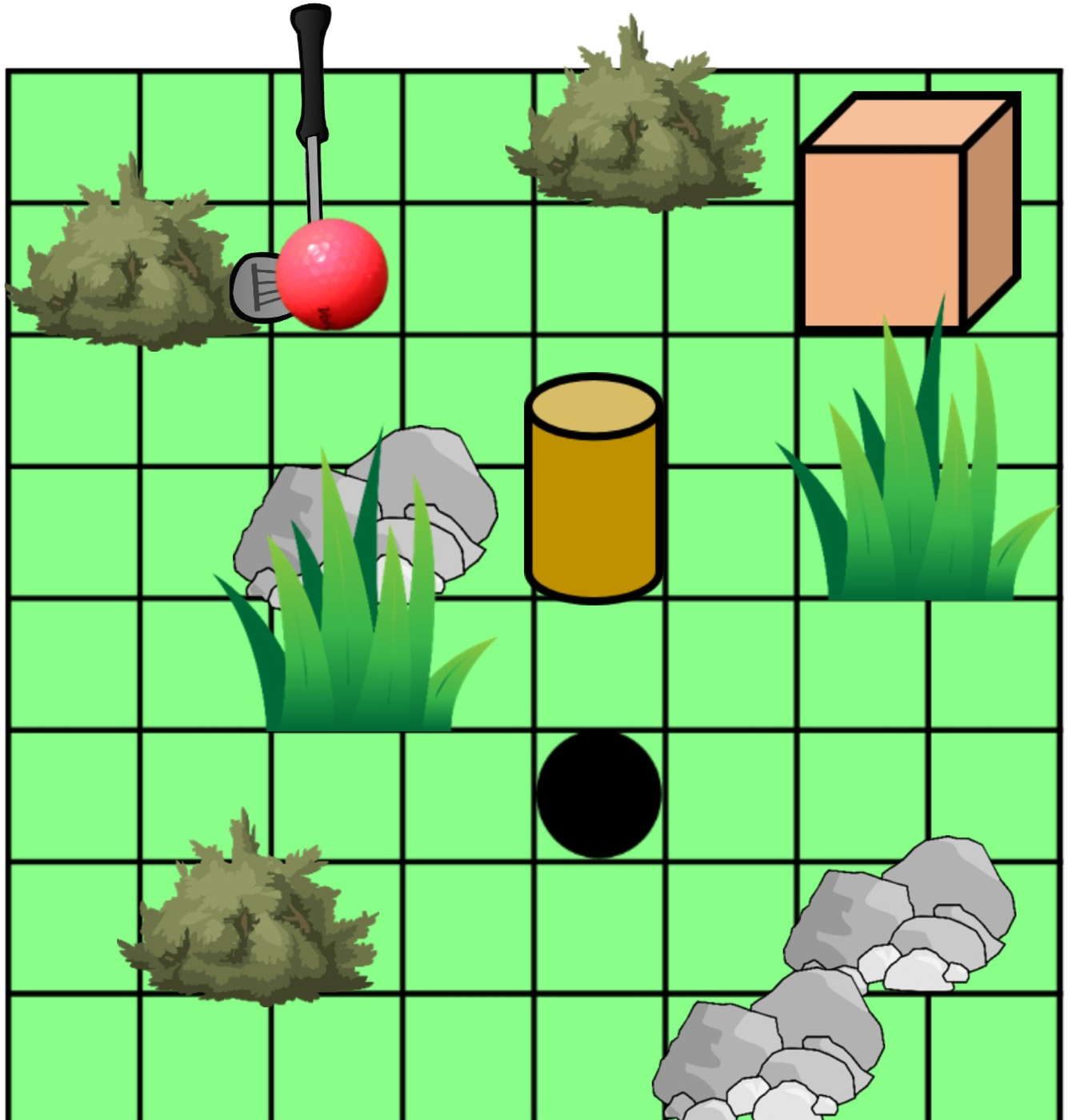

Géométrie 9

Remue-méninge 10

Le basketball

CONSIGNE

3

1

2

2 1 3

Tâtonner

Solution

D'après la **DSDEN 58** (1 défi par jour 2015)

Maths alors !

APECUS vous fait garder la forme !

Activité Physique Quotidienne



Donne le résultat de ce calcul en prenant la position qui va avec la bonne réponse !
Hop hop, on s'entraine avec un exemple simple.
Tu es prêt ? c'est parti !

Calcul : Et encore Et encore Et encore Et encore

4	6	5

Tu en veux encore ?
Voici de quoi jouer à ce jeu à volonté !

S'échauffer avant le défi !