Noms :



4ème C
Visite au Musée des Beaux Arts de La Rochelle
13 janvier 20011
Travail à faire par 2

- Pour chaque tableau, compléter le nom de l'artiste et répondre aux questions
- *Des mots de vocabulaire, en italiques, sont expliqués en fin de document*

Salles <u>à droite</u> de l'accueil

Salle A:



Réception à l'hotel de Ville de La Rochelle de:…….....

Le haut du tableau est très éclairé, cela permet de voir que le tableau est peint sur.....

Campement d'un *Goum* de….....
Dimensions du tableau:
Trouver des adjectifs pour caractériser le cadre, faire une phrase.

La Prière du soir de ….....
Une partie du tableau est abîmée, laquelle?

A ton avis, à quoi est-de dû?



Femme Juive d'Alger de ….....;
As tu déjà entendu parler de ce peintre?

Dimensions du tableau:

Liste d'adjectifs adaptés à ce petit tableau:

Salles à Droite de l'accueil

Salle B:



Connait-on le nom de l'artiste de « **Venus et l'Amour** » ?
Qu'est ce qui est écrit sur le *cartel* ?

La *touche* du pinceau est-elle visible sur ce tableau?

Océanide de ….....
Faire une description du sable.

Ce sable est-il réaliste?

Trois jeunes Filles de ….....
Description des étoffes des robes des femmes:

Portrait de Luther de l'école de….....
La *touche* est-elle visible?

Comment est la surface du tableau?

Est-il bien conservé?

Portrait d'Homme de ….....

Decrire le genre de toile sur laquelle est peint ce portrait? :

Tableau de **Gaston Chaissac**
Au niveau technique, qu'a utilisé le peintre? (Support <u>et</u> peinture)

Trouve l'année où a été fait ce tableau:

Salles à gauche de l'accueil

Salle C:

La Messe de Saint Grégoire école.....

Une matière très précieuse (….....) a servi pour faire certaines parties.
Lesquelles?

Sans question, observe le tableau juste en face, (St Christophe portant l'enfant Jésus)

Paysage école flamande.
Que remarques tu sur ce tableau?

Sur quoi est-il peint?



Paysages
Regarde bien, quelle est l'originalité **technique** de ces 2 petits tableaux ?(lis le *cartel)*

Décrire les feuilles des arbres

Salle D:

Paysages de L-G Pelouse, J-B Corot, D. Grenet de Joigny

Décrire comment sont faites <u>les feuilles</u> des arbres:

Lequel des 3 préfères tu?
Compare avec les 3 au dessus:

Les bords du Taurion de….....

Quel outil a utilisé le peintre? Des pinceaux...?

Salle E:

La sieste de ….....

Décrire la manière de peindre

Le tableau est-il verni?

La Partie de Campagne de ….....
Quand fait-on une esquisse? A quoi cela sert-il à ton avis?

Tamaris aux Minimes de ….....
Qu'est- ce qui a intéressé le peintre à ton avis?

Entre les salles E et F:

Pins de ….....
Ce peintre fait partie d'un *mouvement artistique* qui s'est appelé « *Les Fauves* », à ton avis, pourquoi leur a -ton donné ce nom?

Salle F:

La Loire de.....
Quel genre de pinceaux a utilisé le peintre?

Quel effet cela donne -t-il?

Jardin de ….....
Comment est fait le blanc du feuillage de l'arbre?

Salle G:

Le Marais de Port Neuf et la Tour Carrée de:
….....
Décrire le ciel, à quoi la *texture* peut-elle faire penser?

Salle H:

Va observer la nature morte d'Antoine B. Dubois, corbeille de fruits et objets divers
Décris la.

Salle de l'accueil:

Le Port de La Rochelle de ….....
A un endroit, on peut voir la toile nue, où?

Paysage de ….....
Ce tableau est-il verni?

La surface de la toile est …

Commentaires personnels sur ce musée:

A ton avis sur quelle idée est basée ce questionnaire? En d'autres mots, quel aspect des peintures sont censés observer les élèves?

Qu'est ce que l'on n'observe pas?